إعداد وتصميم: الأستاذ محمد

التَّجْميعُ والاسْتِبْدَالُ

1 التجميع

2 الاستبدال

3 العشرات

4 الأعداد

بوابة النجاح التعليمية
najahdz.com

https://www.facebook.com/الأستاذ-محمّد-

أَقُومُ بالتَّجْميعِ ثُمَّ أَكْمِلُ





يُوجَدُ .... حِزَم مِن عَشَرَة و .... أزْرَارٍ مُنْفرِدَةٌ

أُسَاعِدُ عِصَام فِي رَسْمِ الكُرَيَّاتِ المُبَيَّنَةِ فِي الجَدْوَل



أرْبِطُ بِمَا يُنَاسِبُ

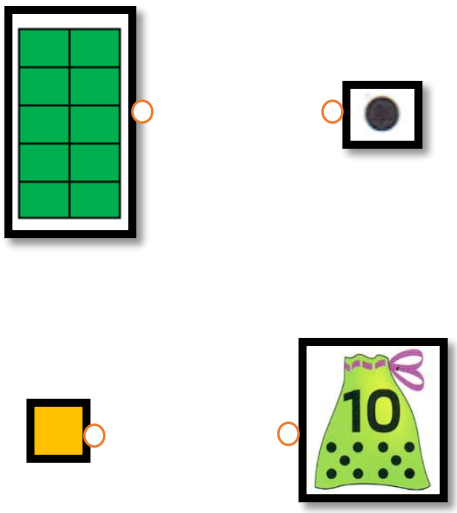

أَضَعُ العِبارات المُنَاسِبَة مَكَانَ النُّقَط:

وَحَداتٍ

عَشَراتٍ



.....

.....

بوابة النجاح التعليمية
najahdz.com

https://www.facebook.com/الأستاذ-محمّد-

أُحَوّطُ الـمَجْموعات مِن 10 ثُمَّ أَكْمِلُ الجَدْول



عشرات	وحدات

يُوجَدُ .... عَشَراتٍ و .... وَحَداتٍ

أُساعِدُ أَمِينَة فِي تَلْوينِ الكَمِيّة الـمَوْجُودَة على السّبُّورَةِ

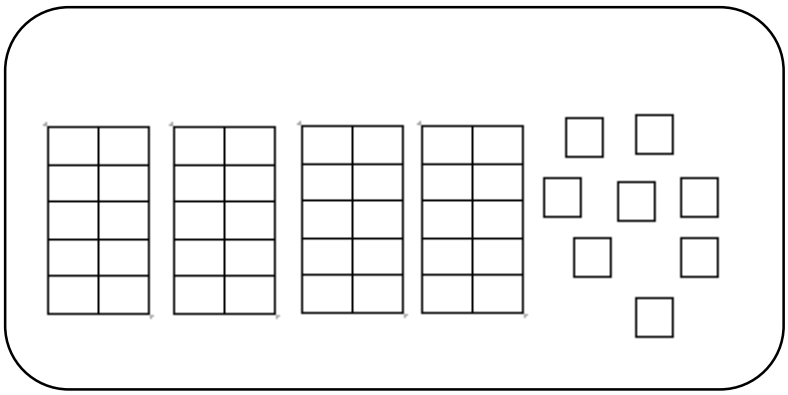

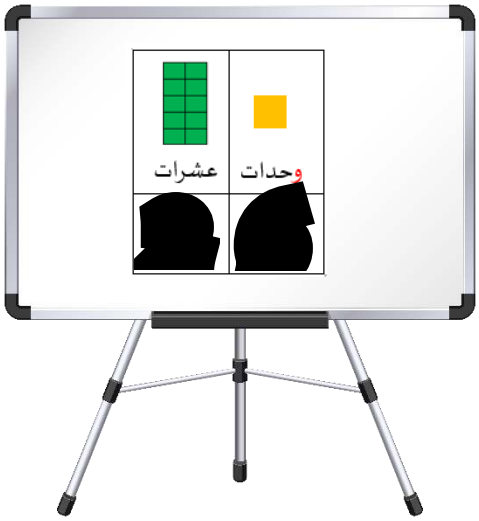

أَكْتُبُ عَدَدَ الوَحَداتِ وعَدَدَ العَشَراتِ

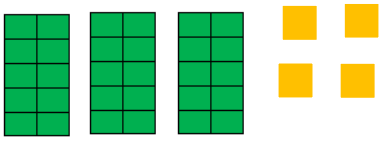

... و ... ع

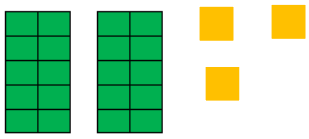

... و ... ع

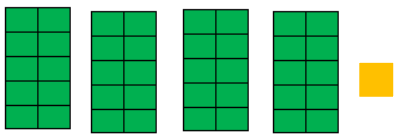

... و ... ع

بوابة النجاح التعليمية
najahdz.com

أُلوّنُ كلّ بطاقة بما يُناسبها

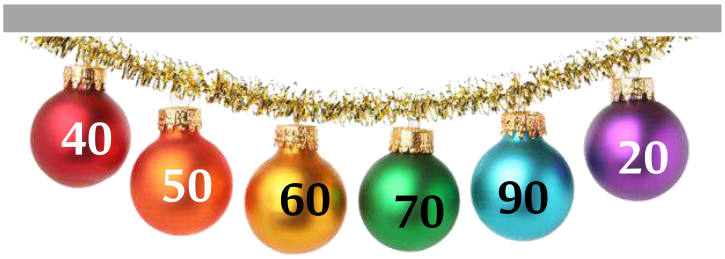

خَمْسُون

أرْبَعُون

سِتُّون

سَبْعُون

عِشْرون

تِسْعُون

اكتب العَدَدَ المُناسِبَ

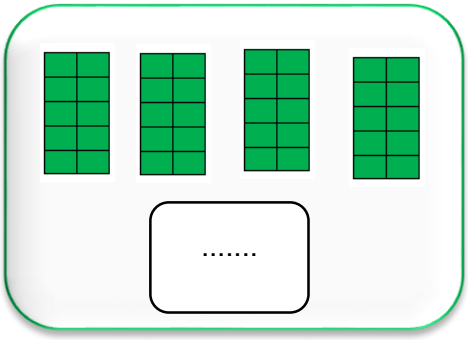

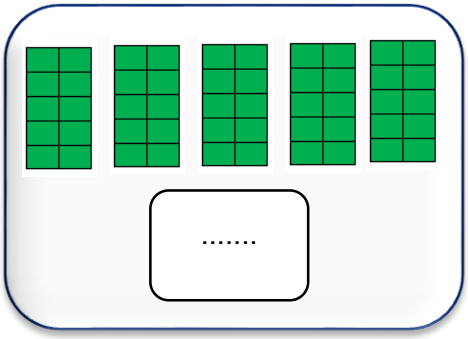

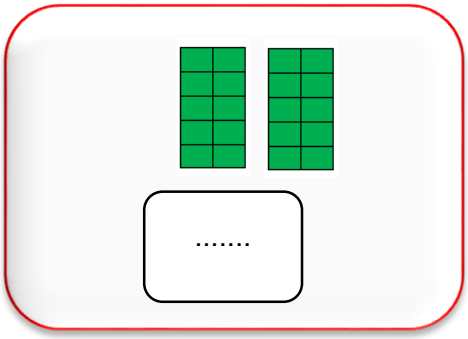

أُسَاعِدُ خديجة في إيجاد العَدد الذي تشير إليه البطاقات

10 10 10 10 10 10 10

.....

أكمل

80 هي .... عَشَراتٍ و .... وَحداتٍ

خَمْسُون هي ..... عَشراتٍ و .... وحَداتٍ

https://www.facebook.com/الأستاذ-محمّد-

بوابة النجاح التعليمية
najahdz.com

https://www.facebook.com/الأستاذ-محمّد-

كَم نَجْمة تَمْلكُ بَسْمَة ؟

عشرات	وحدات

تَمْلِكُ بَسْمَة .... نَجْمَةً

أرْبطُ كلّ بِطاقَة بِمَا يُنَاسِبُها

5 وحدات و6 عشرات	3 وحدات و8 عشرات	9 وحدات و7 عشرات

83	79	65

أخْتارُ العَدَد المُناسِب وألوّنُهُ

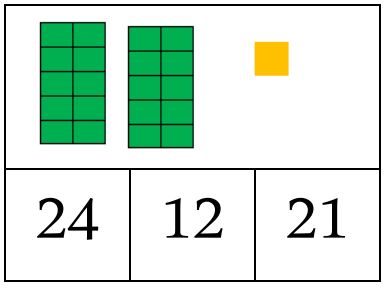

24	12	21

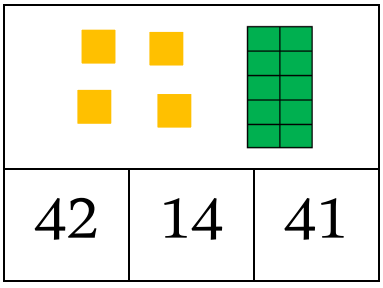

42	14	41

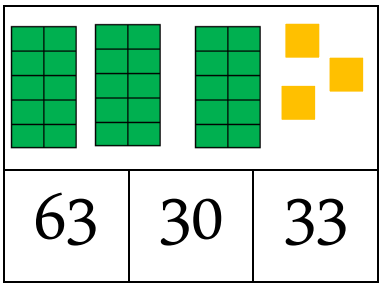

63	30	33

اكتب بالرموز

سَبْعَةٌ وأَرْبَعُون .....

واحِدٌ وخَمْسُون

تِسْعُون .....

ثَلاثَة وسِتُّون

بوابة النجاح التعليمية
najahdz.com

للمزيد من الأعمال والملفات يرجى زيارة صفحتنا على الفيس بوك

https://www.facebook.com/الأستاذ-محمّد-2340870549287201

مع تحيات الاستاذ محمد

بوابة النجاح التعليمية
najahdz.com